2023 年 11 月 6 日　公務員対策講座 スタンダードレベル判断推理

テキスト第 6 講　22 ページ

第６講　展開図

【No. 3】

誤

【No.　3】正四面体の２つの面にＡとＢが書かれている。この正四面体の展開図として正しいのは、次のうちのどれか。

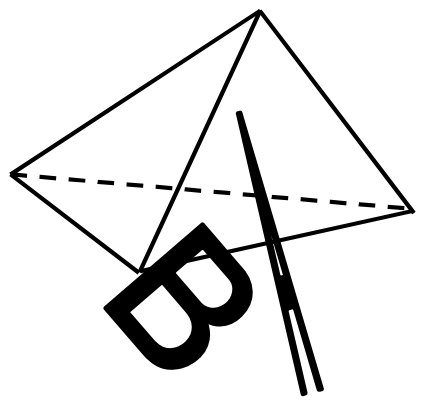

1.
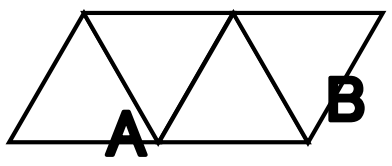

2.
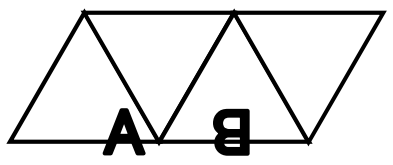

3.
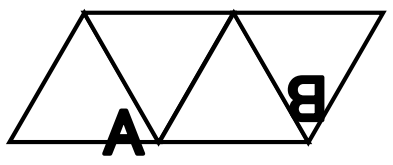

4.
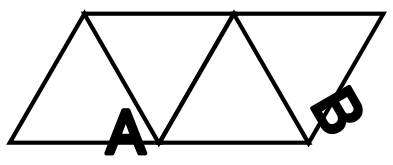

5.
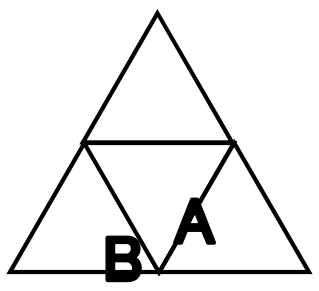

↓

正

【No.　3】正四面体の２つの面にＡとＢが書かれている。この正四面体の展開図として正しいのは、次のうちのどれか。



1.
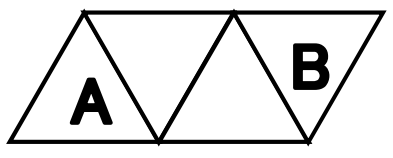

2.
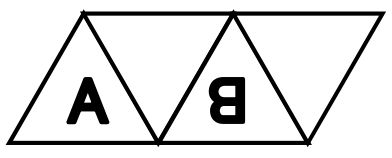

3.
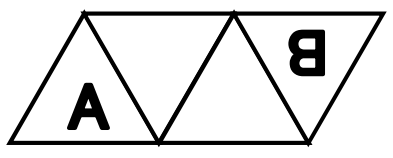

4.
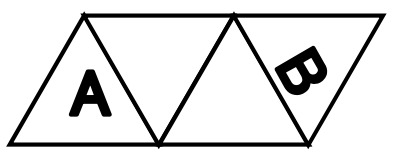
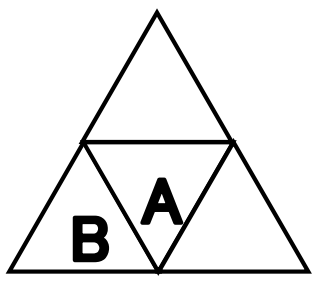
5.